Getal & Ruimte Junior

Doelenposter 6

In blok 1 herhaal ik:

Blok 1.1 getallen splitsen in duizendtallen, honderdtallen, tientallen en eenheden.

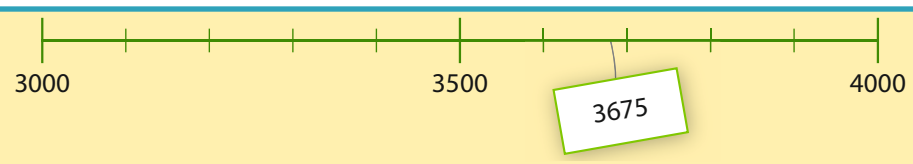

3675 = 3000 + 600 + 70 + 5

D	H	T	E
3	6	7	5

3675 heeft 3 duizendtallen, 6 honderdtallen, 7 tientallen en 5 eenheden.

Blok 1.1 optellen en aftrekken tot 1000 met tussenstappen.

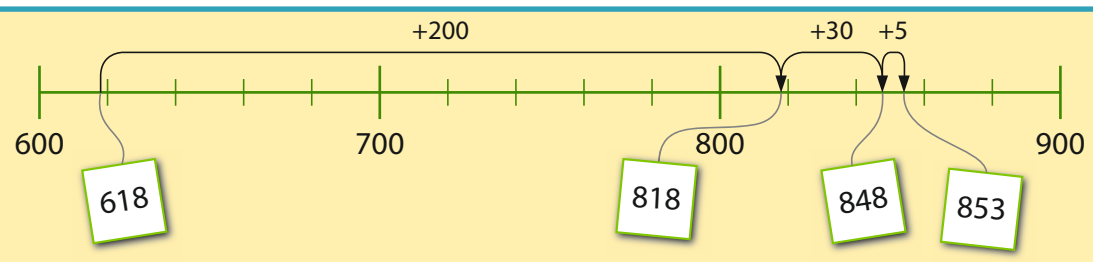

618 + 235 = 818 + 35 = 848 + 5 = 853

Blok 1.1 cijferend optellen en aftrekken tot 1000 met onthouden en inwisselen.

658 + 239 ≈ 700 + 200 = 900

8 + 9 = 17
Schrijf de 7 op
Onthoud 1 tiental.
1 + 5 + 3 = 9
Schrijf de 9 op.
6 + 2 = 8
Schrijf de 8 op.

	1		
6	5	8	
2	3	9	+
8	9	7	

467 – 139 ≈ 400 – 100 = 300

7 – 9 gaat niet; een tiental inwisselen:
De 7 eenheden worden 17
De 6 tientallen worden 5
17 – 9 = 8
5 – 3 = 2; schrijf de 2 op.
4 – 1 = 3
Schrijf de 3 op.

	5	17	
4	~~6~~	~~7~~	
1	3	9	–
3	2	8	

De antwoorden liggen in de buurt van de schatting.

Blok 1.1 optellen en aftrekken in sommen.

Op Het Prisma zitten 623 kinderen. Alle ouders krijgen één brief met uitnodiging voor een vergadering. Er zijn 239 kinderen die een ouder broertje of zusje op school hebben. Hoeveel brieven worden er verstuurd?

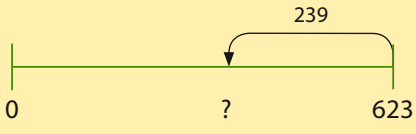

Stap 1 Maak een tekening.
Stap 2 Wat moet je uitrekenen?
Aantal brieven = 623 – 239.
Stap 3 Wat is je antwoord?
Schatting: 623 – 239 ≈
600 – 200 = 400
Er worden 384 brieven verstuurd.
Stap 4 Klopt je antwoord?
Het antwoord ligt in de buurt van de schatting.

5	11	13	
~~6~~	~~2~~	~~3~~	
2	3	9	–
3	8	4	